ЭКЗАМЕН ТОЭ ч.3.

Задача № 14.

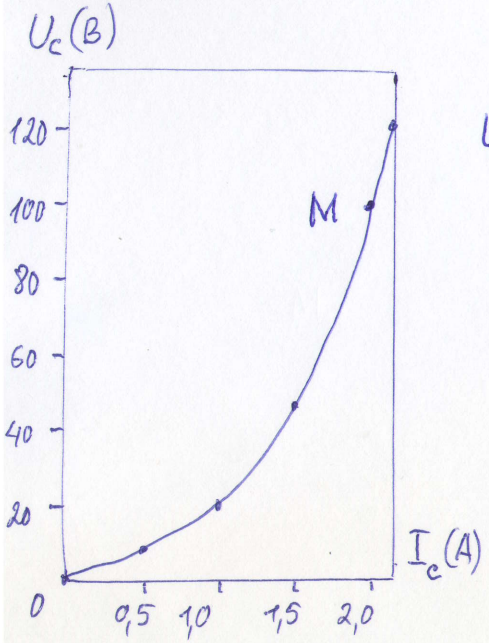

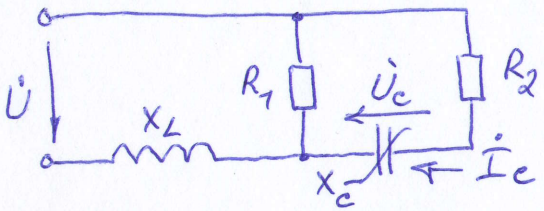

Определить $\dot{U}$ первой гармоники, если режим по графику ВАХ нелинейной емкости в точке М.

Задано: $R_1 = 27$ Ом
$R_2 = 38$ Ом
$X_L = 51$ Ом

ЭКЗАМЕН ТОЭ ч.3.

Задача № 13

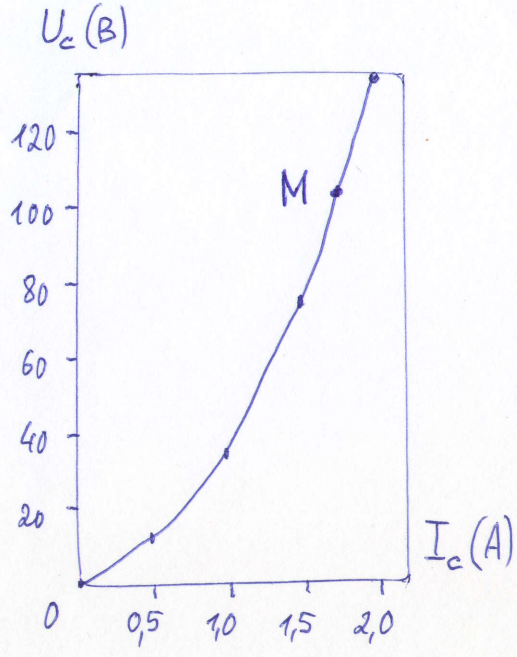

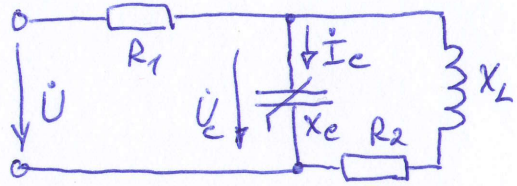

Определить $\dot{U}$ первой гармоники, если режим по графику ВАХ нелинейной емкости в точке М.

Задано: $R_1 = 35$ Ом
$R_2 = 63$ Ом
$X_L = 120$ Ом

ЭКЗАМЕН ТОЭ ч.3.

Задача № 16

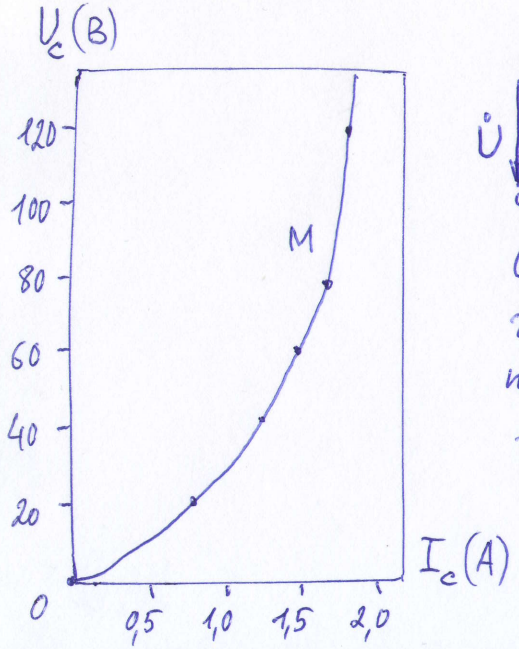

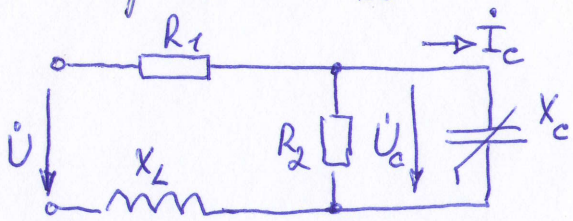

Определить $\dot{U}$ первой гармоники, если режим по графику ВАХ нелинейной емкости в точке М.

Задано: $R_1 = 38$ Ом
$R_2 = 45$ Ом
$X_L = 72$ Ом

ЭКЗАМЕН ТОЭ ч.3.

Задача № 15

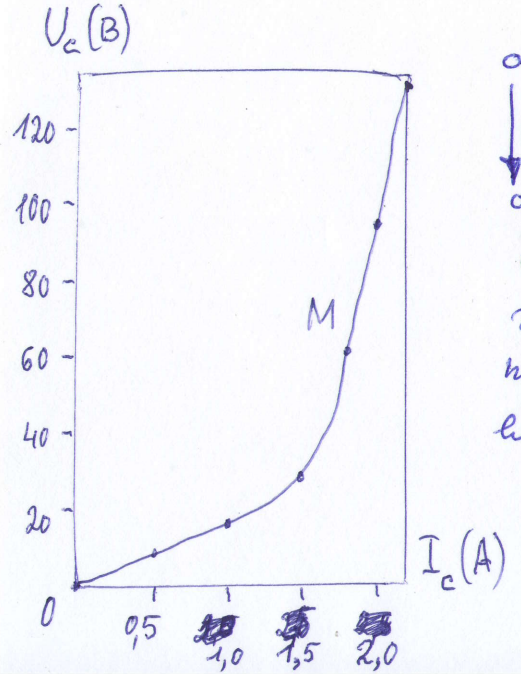

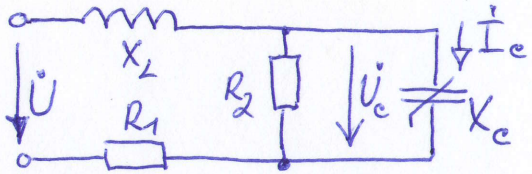

Определить $\dot{U}$ первой гармоники, если режим по графику ВАХ нелинейной емкости в точке М.

Задано: $R_1 = 75$ Ом
$R_2 = 36$ Ом
$X_L = 67$ Ом