ЭКЗАМЕН ТОЭ ч.3.

Задача № 18

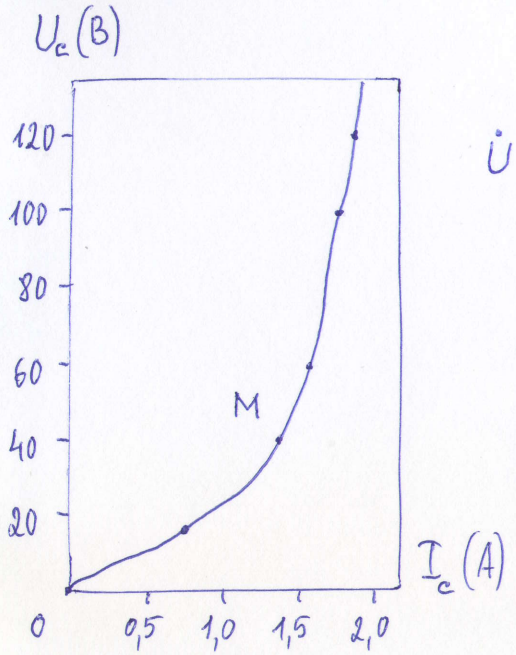

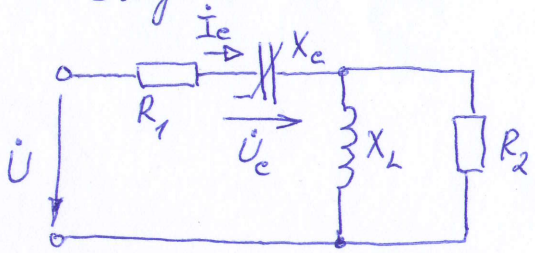

Определить $\dot{U}$ первой гармоники, если режим по графику ВАХ нелинейной емкости в точке М.

Задано: $R_1 = 40$ Ом
$R_2 = 34$ Ом
$X_L = 30$ Ом.

ЭКЗАМЕН ТОЭ ч.3.

Задача № 17

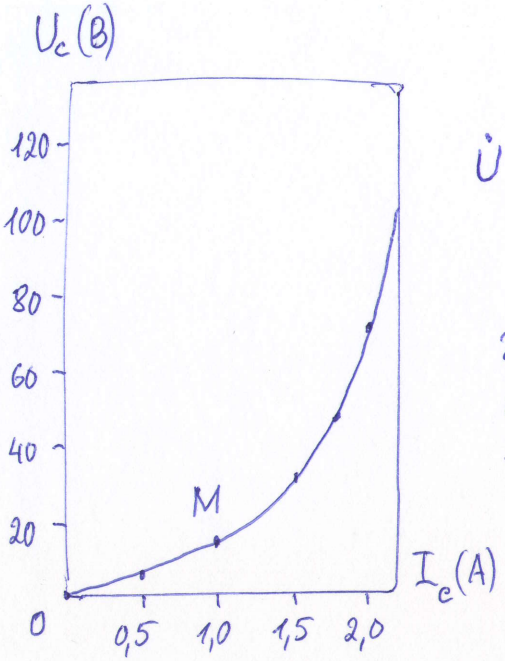

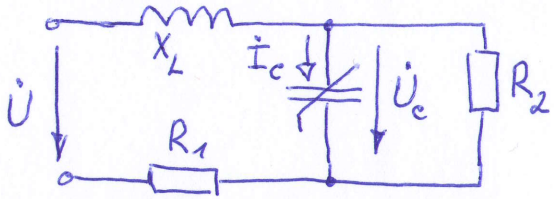

Определить $\dot{U}$ первой гармоники, если режим по графику ВАХ нелинейной емкости в точке М.

Задано: $R_1 = 14$ Ом
$R_2 = 26$ Ом
$X_L = 16$ Ом.

ЭКЗАМЕН ТОЭ ч.3.

Задача № 20

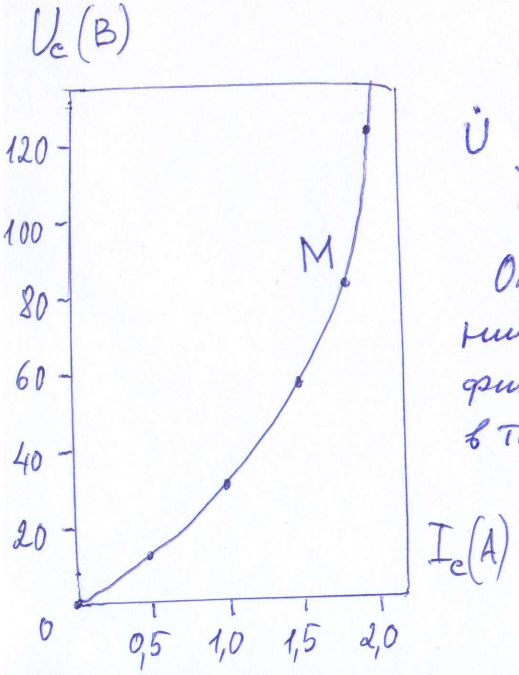

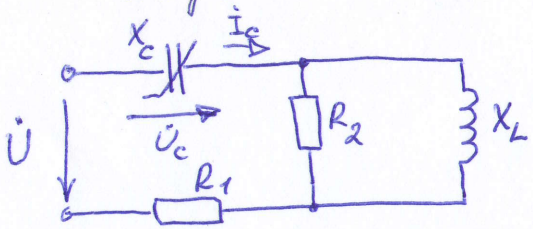

Определить $\dot{U}$ первой гармоники, если режим по графику ВАХ нелинейной емкости в точке М. Задано: $R_1 = 60$ Ом, $R_2 = 50$ Ом, $X_L = 70$ Ом.

ЭКЗАМЕН ТОЭ ч.3.

Задача № 19

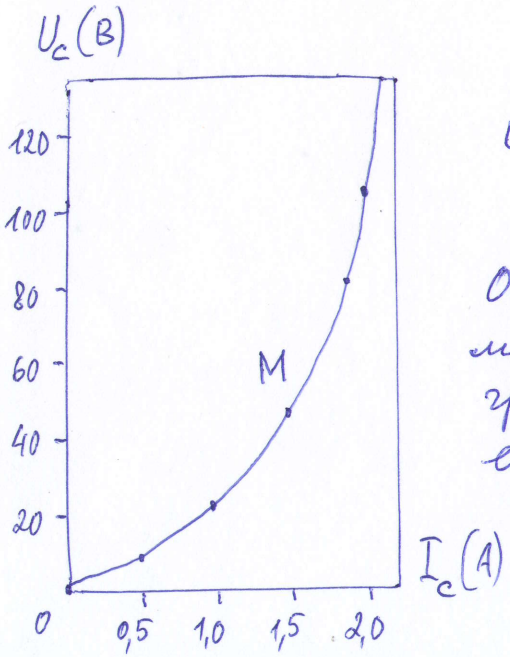

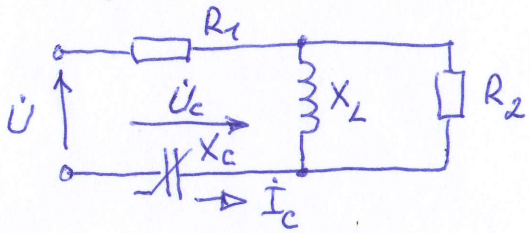

Определить $\dot{U}$ первой гармоники, если режим по графику ВАХ нелинейной емкости в точке М.

Задано: $R_1 = 27$ Ом
$R_2 = 32$ Ом
$X_L = 60$ Ом